Текстовые задачи

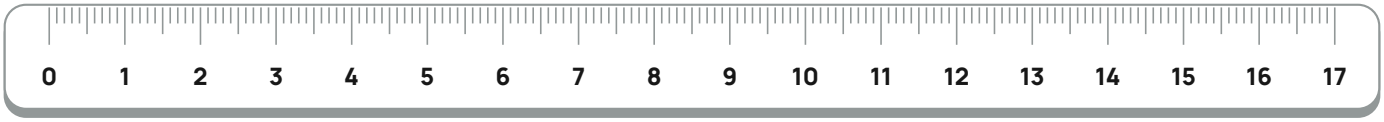

Имя: _____ Дата: _____

Уровень 1 задачи в одно действие

Реши задачи и запиши ответы. Вычисления можно выполнить в тетради.

1. Одна дорожка длиной 4 м 10 см, другая 3 м 32 см. На сколько сантиметров первая длиннее?

2. К ленте длиной 3 м 24 см пришили ещё 65 см. Сколько сантиметров стало?

3. От шнура длиной 8 м 3 см отрезали 1 м 18 см. Сколько сантиметров осталось?

4. Одна дорожка длиной 5 м 11 см, другая 4 м 35 см. На сколько сантиметров первая длиннее?

5. К ленте длиной 2 м 24 см пришили ещё 65 см. Сколько сантиметров стало?

6. Ленту длиной 3 м разделили пополам. Сколько сантиметров в одной половине?

7. От шнура длиной 2 м 3 см отрезали 1 м 18 см. Сколько сантиметров осталось?

8. Ленту длиной 2 м разделили пополам. Сколько сантиметров в одной половине?

Текстовые задачи

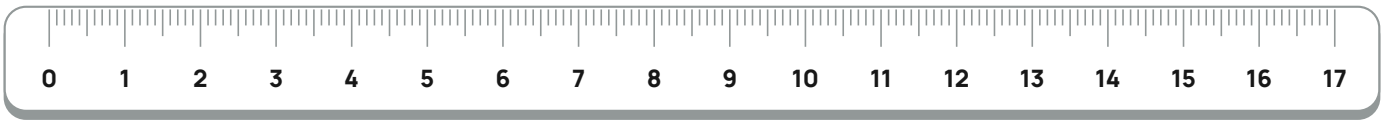

Уровень 2 задачи в два действия

Реши задачи и запиши ответы. Вычисления можно выполнить в тетради.

1. Из 1 км провода отрезали 3 куска по 155 м. Сколько метров осталось?

2. У Кати лента длиной 1 м 50 см. У Пети на 65 см длиннее. Какова общая длина двух лент в сантиметрах?

3. Из 1 км провода отрезали 3 куска по 135 м. Сколько метров осталось?

4. Шнур длиной 3 м 60 см разрезали на 2 равные части. От одной части отрезали 35 см. Сколько сантиметров осталось в этой части?

5. Прошли четверть километра, затем ещё 120 м. Сколько метров осталось до 1 км?

6. У Кати лента длиной 1 м 55 см. У Пети на 65 см длиннее. Какова общая длина двух лент в сантиметрах?

7. Прошли четверть километра, затем ещё 140 м. Сколько метров осталось до 1 км?

8. Шнур длиной 5 м 60 см разрезали на 4 равные части. От одной части отрезали 35 см. Сколько сантиметров осталось в этой части?

Текстовые задачи

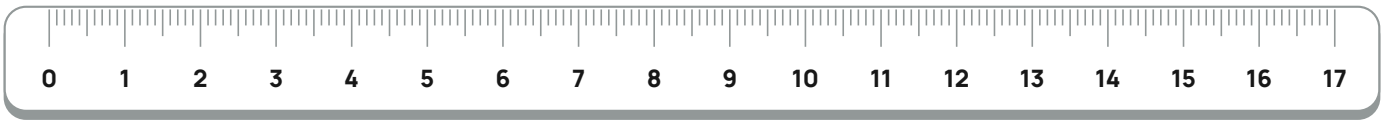

Ответы к заданиям обоих уровней.

Уровень 1

задачи в одно действие

1. 410 - 332 = 78 см.
2. 324 + 65 = 389 см.
3. 803 - 118 = 685 см.
4. 511 - 435 = 76 см.
5. 224 + 65 = 289 см.
6. 300 : 2 = 150 см.
7. 203 - 118 = 85 см.
8. 200 : 2 = 100 см.

Уровень 2

задачи в два действия

1. 1000 - 155 × 3 = 535 м.
2. 150 + 65 = 215 см. 150 + 215 = 365 см.
3. 1000 - 135 × 3 = 595 м.
4. 360 : 2 - 35 = 145 см.
5. 1000 : 4 = 250 м. 1000 - (250 + 120) = 630 м.
6. 155 + 65 = 220 см. 155 + 220 = 375 см.
7. 1000 : 4 = 250 м. 1000 - (250 + 140) = 610 м.
8. 560 : 4 - 35 = 105 см.

Математические тропинки

Онлайн-занятия по математике для детей.

Записаться на бесплатное пробное занятие →