Сравнение длин

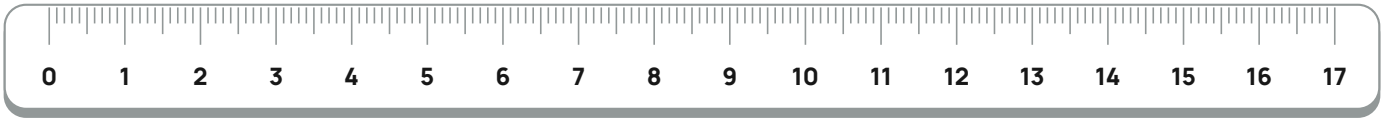

Имя: _____ Дата: _____

Уровень 1 составные длины

Вставь знак >, < или =.

1. 66 км 8 м ___ 66008 м
2. 138 м 5 см ___ 1385 дм
3. 18 км 8 м ___ 18080 м
4. 72 км 8 м ___ 71999 м
5. 54 км 8 м ___ 54080 м
6. 132 м 5 см ___ 1325 дм
7. 24 км 8 м ___ 23999 м
8. 30 км 8 м ___ 30008 м

Сравнение длин

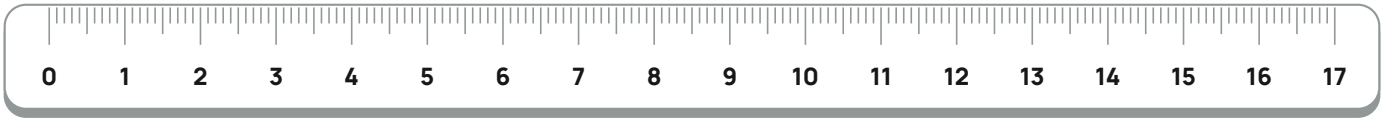

Имя: _____ Дата: _____

Уровень 2 применяем способ

Вставь знак >, < или =. В последних двух заданиях отметь равные длины.

1. 138 м 5 см ___ 1380 дм 4 см
2. 50 м 6 см 8 мм ___ 50068 мм
3. 64 м 6 см 8 мм ___ 64067 мм
4. 84 км 8 м ___ 83998 м
5. 18 км 8 м ___ 18008 м
6. 142 м 5 см ___ 1420 дм 6 см
7. Отметь две равные длины.

36080 м	36008 м
3608 м	36 км 8 м

8. Отметь две равные длины.

3008 м	30008 м
30080 м	30 км 8 м

Сравнение длин

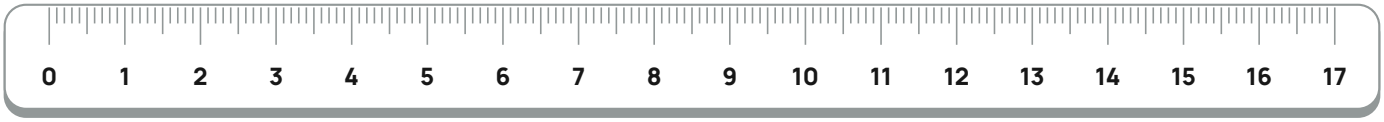

Ответы к заданиям тренировочного листа.

Уровень 1 составные длины

1. 66 км 8 м = 66008 м
2. 138 м 5 см < 1385 дм
3. 18 км 8 м < 18080 м
4. 72 км 8 м > 71999 м
5. 54 км 8 м < 54080 м
6. 132 м 5 см < 1325 дм
7. 24 км 8 м > 23999 м
8. 30 км 8 м = 30008 м

Уровень 2 применяем способ

1. 138 м 5 см > 1380 дм 4 см
2. 50 м 6 см 8 мм = 50068 мм
3. 64 м 6 см 8 мм > 64067 мм
4. 84 км 8 м > 83998 м
5. 18 км 8 м = 18008 м
6. 142 м 5 см < 1420 дм 6 см
7. 36 км 8 м = 36008 м
8. 30 км 8 м = 30008 м

Математические тропинки

Онлайн-занятия по математике для детей.

Записаться на бесплатное пробное занятие →