Доли длины

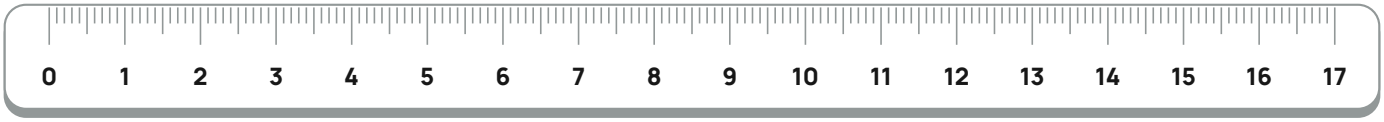

Имя: _____ Дата: _____

Уровень 1 составные длины

Реши задания и запиши ответы.

1. Найди 1/4 длины 12 км 0 м. Ответ запиши в метрах.
2. Найди 1/2 длины 5 км 0 м. Ответ запиши в метрах.
3. 1/2 маршрута составляет 3 км 250 м. Сколько метров во всём маршруте?
4. Найди 1/2 длины 3 км 500 м. Ответ запиши в метрах.
5. 1/2 маршрута составляет 4 км 0 м. Сколько метров во всём маршруте?
6. Найди 1/3 длины 3 км 750 м. Ответ запиши в метрах.
7. 1/3 маршрута составляет 3 км 500 м. Сколько метров во всём маршруте?
8. 1/4 маршрута составляет 3 км 750 м. Сколько метров во всём маршруте?

Доли длины

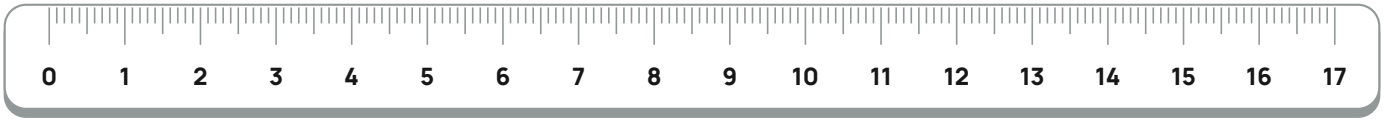

Имя: _____ Дата: _____

Уровень 2 применяем способ

Реши задания и запиши ответы.

1. 1/6 маршрута составляет 0 км 750 м. Сколько метров во всём маршруте?
2. 1/7 маршрута составляет 1 км 0 м. Сколько метров во всём маршруте?
3. 1/6 маршрута составляет 2 км 750 м. Сколько метров во всём маршруте?
4. Найди 1/6 длины 4 км 500 м. Ответ запиши в метрах.
5. Найди 1/8 длины 10 км 0 м. Ответ запиши в метрах.
6. Найди 1/8 длины 18 км 0 м. Ответ запиши в метрах.
7. Найди 1/6 длины 16 км 500 м. Ответ запиши в метрах.
8. 1/6 маршрута составляет 1 км 750 м. Сколько метров во всём маршруте?

Доли длины

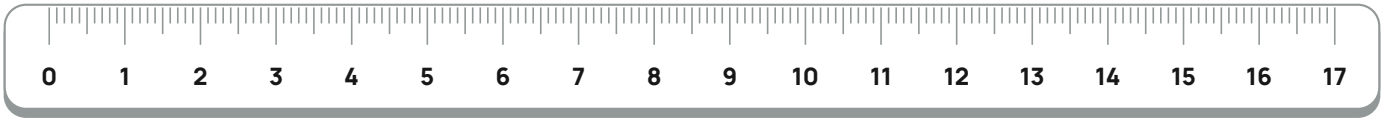

Ответы к заданиям тренировочного листа.

Уровень 1 составные длины

1. 12000 : 4 = 3000 м.
2. 5000 : 2 = 2500 м.
3. 3250 × 2 = 6500 м.
4. 3500 : 2 = 1750 м.
5. 4000 × 2 = 8000 м.
6. 3750 : 3 = 1250 м.
7. 3500 × 3 = 10500 м.
8. 3750 × 4 = 15000 м.

Уровень 2 применяем способ

1. 750 × 6 = 4500 м.
2. 1000 × 7 = 7000 м.
3. 2750 × 6 = 16500 м.
4. 4500 : 6 = 750 м.
5. 10000 : 8 = 1250 м.
6. 18000 : 8 = 2250 м.
7. 16500 : 6 = 2750 м.
8. 1750 × 6 = 10500 м.

Математические тропинки

Онлайн-занятия по математике для детей.

Записаться на бесплатное пробное занятие →