Текстовые задачи

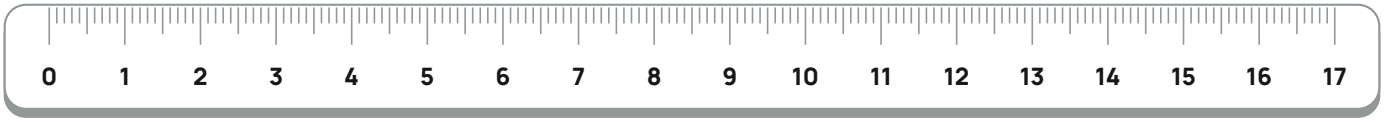

Имя: _____ Дата: _____

Уровень 1 задачи в два действия

Реши задачи и запиши ответы. Вычисления можно выполнить в тетради.

1. От кабеля длиной 39 км 40 м отрезали 3 куска по 1 км 600 м. Сколько метров кабеля осталось?

2. Маршрут длиной 27 км 40 м. Туристы прошли 2 км 500 м до привала, затем ещё 2750 м. Сколько метров осталось пройти?

3. От кабеля длиной 17 км 40 м отрезали 3 куска по 1 км 50 м. Сколько метров кабеля осталось?

4. Кабель длиной 9 км 0 м разрезали на 4 равные части. От одной части отрезали 350 м. Сколько метров осталось в этой части?

5. Первая дорожка длиной 1 км 250 м. Вторая на 750 м длиннее. Найди общую длину двух дорожек в метрах.

6. Кабель длиной 7 км 0 м разрезали на 4 равные части. От одной части отрезали 350 м. Сколько метров осталось в этой части?

7. Маршрут длиной 19 км 40 м. Туристы прошли 1 км 500 м до привала, затем ещё 2750 м. Сколько метров осталось пройти?

8. Первая дорожка длиной 3 км 500 м. Вторая на 750 м длиннее. Найди общую длину двух дорожек в метрах.

Текстовые задачи

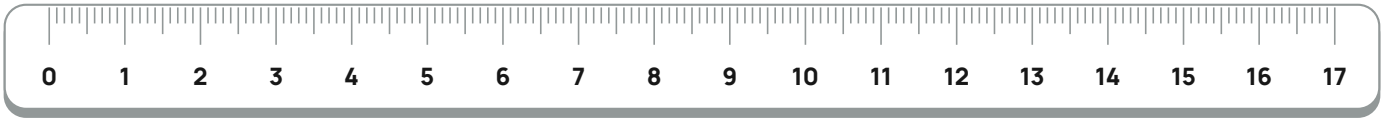

Имя: _____ Дата: _____

Уровень 2 задачи в три действия

Реши задачи и запиши ответы. Вычисления можно выполнить в тетради.

1. Маршрут длиной 37 км 40 м. Туристы прошли 3 км 750 м до привала, затем ещё 2750 м. Оставшийся путь разделили на два равных участка. Сколько метров в каждом участке?

2. Кабель длиной 9 км 0 м разрезали на 4 равные части. От одной части отрезали 350 м. Остаток этой части разделили пополам. Сколько метров в одной из получившихся частей?

3. Первая дорожка длиной 3 км 500 м. Вторая на 750 м длиннее. Третья на 450 м короче второй. Найди общую длину первой и третьей дорожек в метрах.

4. Кабель длиной 12 км 0 м разрезали на 4 равные части. От одной части отрезали 350 м. Остаток этой части разделили пополам. Сколько метров в одной из получившихся частей?

Текстовые задачи

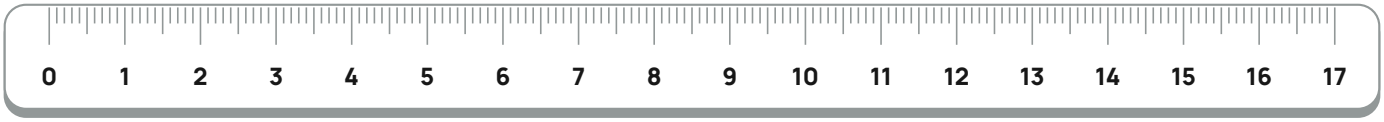

Имя: _____ Дата: _____

Уровень 2 задачи в три действия

Реши задачи и запиши ответы. Вычисления можно выполнить в тетради.

5. От кабеля длиной 29 км 40 м отрезали 3 куска по 1 км 350 м. Затем отрезали ещё 650 м. Сколько метров кабеля осталось?

6. Маршрут длиной 33 км 40 м. Туристы прошли 3 км 250 м до привала, затем ещё 2750 м. Оставшийся путь разделили на два равных участка. Сколько метров в каждом участке?

7. Первая дорожка длиной 3 км 750 м. Вторая на 750 м длиннее. Третья на 450 м короче второй. Найди общую длину первой и третьей дорожек в метрах.

8. От кабеля длиной 17 км 40 м отрезали 3 куска по 1 км 50 м. Затем отрезали ещё 650 м. Сколько метров кабеля осталось?

Текстовые задачи

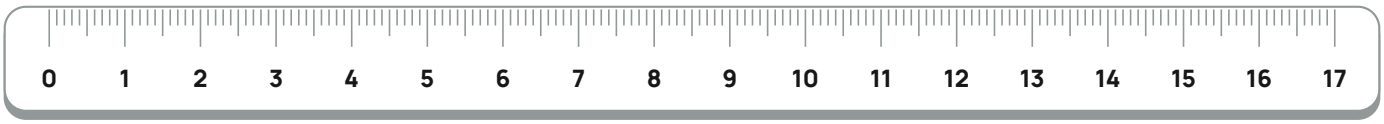

Ответы к заданиям тренировочного листа.

Уровень 1 задачи в два действия

1. 39040 - 1600 × 3 = 34240 м.
2. (27040 - 2500 - 2750) = 21790 м.
3. 17040 - 1050 × 3 = 13890 м.
4. (9000 : 4 - 350) = 1900 м.
5. 1250 + 750 = 2000 м. 1250 + 2000 = 3250 м.
6. (7000 : 4 - 350) = 1400 м.
7. (19040 - 1500 - 2750) = 14790 м.
8. 3500 + 750 = 4250 м. 3500 + 4250 = 7750 м.

Уровень 2 задачи в три действия

1. (37040 - 3750 - 2750) : 2 = 15270 м.
2. (9000 : 4 - 350) : 2 = 950 м.
3. 3500 + 750 = 4250 м. 3500 + (4250 - 450) = 7300 м.
4. (12000 : 4 - 350) : 2 = 1325 м.
5. 29040 - 1350 × 3 - 650 = 24340 м.
6. (33040 - 3250 - 2750) : 2 = 13520 м.
7. 3750 + 750 = 4500 м. 3750 + (4500 - 450) = 7800 м.
8. 17040 - 1050 × 3 - 650 = 13240 м.

Математические тропинки

Онлайн-занятия по математике для детей.

Записаться на бесплатное пробное занятие →