Как пользоваться таблицей

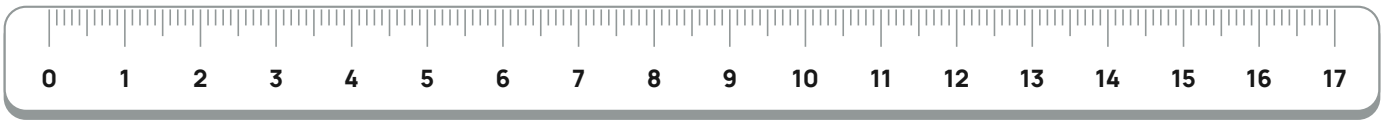

Между км и м есть столбцы для сотен и десятков метров.

1 Из крупных единиц в мелкие

Переведём 5 км в сантиметры.

км			м	дм	см	мм
5	0	0	0	0	0	

Запиши 5 в столбце «км». Допиши нули до столбца «см».

Прочитай число до этого столбца: 500 000.

5 км = 500 000 см

2 Из мелких единиц в крупные

Представим 235 см в метрах и сантиметрах.

км			м	дм	см	мм
			2	3	5	

Запиши 235: последняя цифра 5 стоит в столбце «см».

В столбце «м» получилось 2. Осталось 35 см.

235 см = 2 м 35 см

1 км = 1000 м · 1 м = 10 дм · 1 дм = 10 см · 1 см = 10 мм

Таблица для занятий

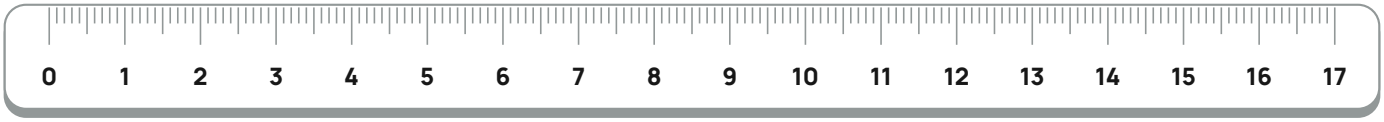

Имя: _____ Дата: _____

Для каждого перевода используй новую строку.

км			м	дм	см	мм

Попробуй с помощью таблицы

1. 3 дм = _____ см
2. 40 мм = _____ см
3. 2 м = _____ см
4. 235 см = _____ м _____ см
5. 508 см = _____ м _____ см
6. 4 км = _____ м

Ответы для родителей находятся на странице 4.

Таблица для своих примеров

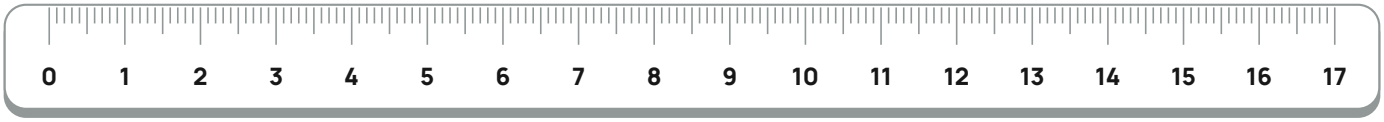

Для каждого перевода используй новую строку.

км			м	дм	см	мм

Ответы к заданиям

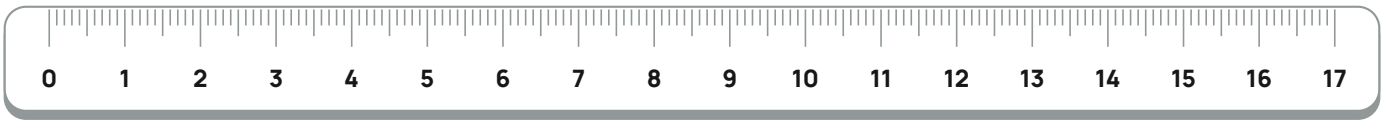

Для проверки заданий на странице 2.

1. **3 дм = 30 см**

2. **40 мм = 4 см**

3. **2 м = 200 см**

4. **235 см = 2 м 35 см**

5. **508 см = 5 м 8 см**

6. **4 км = 4000 м**

Математические тропинки

Онлайн-занятия по математике для детей.

Записаться на бесплатное пробное занятие →